(بدرخانی)

به نام حضرت حق

نام ونام خانوادگی:..... آزمون ریاضی کلاس اول دبستان دخترانه شهدای صاایران اسفند

۱- جمع ها را روی شکل نشان بده.

۲ + ۳ + ۴ = ---

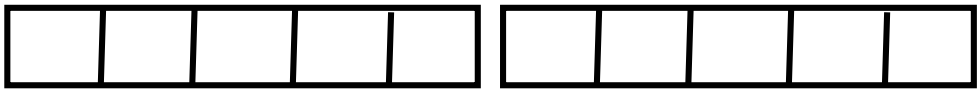

۰ + ۵ + ۲ = ---

۲- جمع و تفریق را روی محور نشان بده.

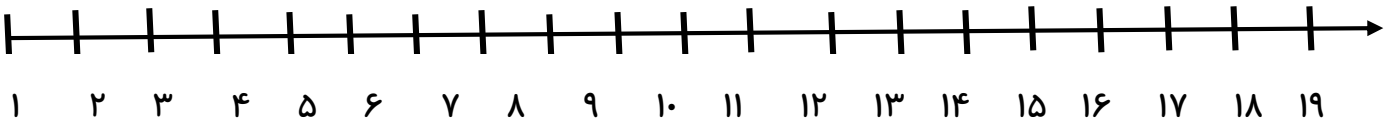

۳ + ۳+ ۴ = ---

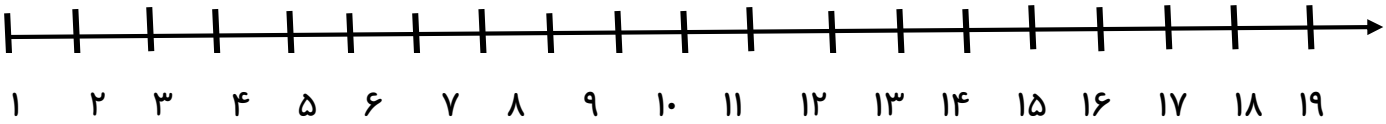

۹ -۶ = ---

(بدرخانی)

۳- جمع عدد ۵ را کامل بنویس.

---=۵ + ---	---=۵ + ---	---=۵ + ---
---=۵ + ---	---=۵ + ---	---=۵ + ---

۴- پاسخ هرقسمت رابنویس و مقایسه کن و علامت مناسب کمتر و بیش تر را انتخاب کن.

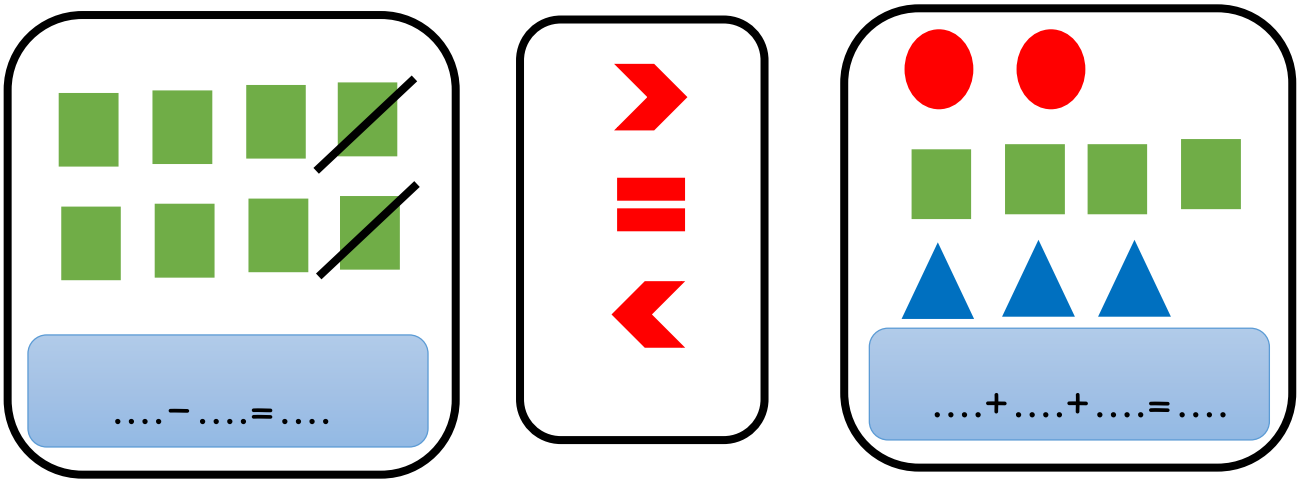

۵- مربع شگفت انگیز را کامل کن.

۵	۱	۴	۳	۲	۶
۶			۱	۴	۵
۱	۴				۳
۴	۴		۵	۱	۲
۲	۵		۶	۳	۴
۳	۴	۶	۲	۵	۱

(بدرخانی)

۶- دسته های ده تایی درست کن و در جای خالی عدد مناسب بنویس.



ده تایی	یکی

..... دسته ده تایی و

..... یکی

۷- الگو را ادامه بده .

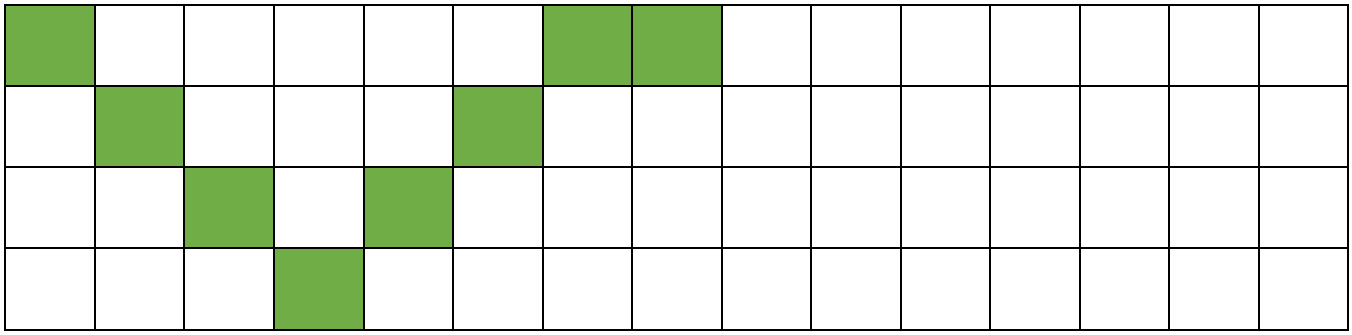

۸- عدد هر دسته رابنویس.

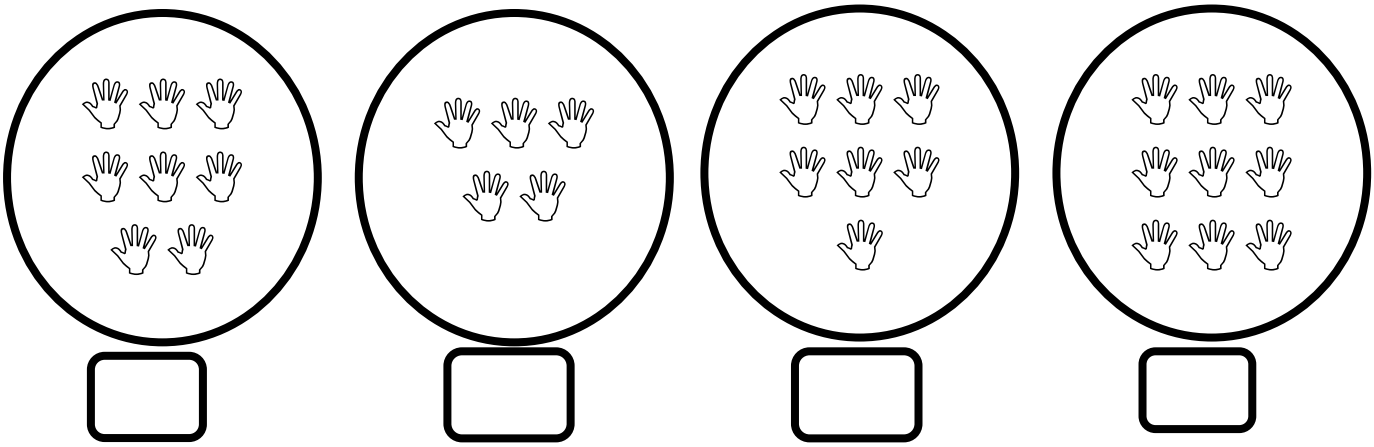

(بدرخانی)

۹- اعداد قبل و بعد را بنویس.

--- _ --- _ --- _ ۱۲ _ ۱۱ _ --- _ ۹ _ --- _ ۷ _ --- _ ---

--- _ --- _ --- _ ۷ _ ۶ _ --- _ ۴_ --- _ ۲ _ --- _ ---

۱۰- در جای خالی عدد مناسب بنویس.

--- = ۵ − ۱۰   --- = ۷ − ۹   --- = ۳ − ۵   --- = ۲ − ۷

--- = ۴ + ۶   --- = ۳ + ۵   --- = ۶+ ۱   --- = ۴ +۴

۱۱- گل های سمت راست را رنگ کن .

۱۲- ۴ تا از پروانه ها را رنگ کن و برای آن جمع بنویس.

--- + ---=---

۱۳- اندازه ی مداد از ..... کوتاه تر است.