نام ونام خانوادگی :

آزمون علوم

زمین خانه ی سنگی ما

۱ -در کجا سنگ بیش تری دیده می شود ؟





۲-سنگ های کنار رودخانه چه شکلی هستند ؟



۳- کدام خانه مدت زمان بیش تری دوام دارد؟

۴- کدام از سنگ ها درست نشده است ؟

۵- درست ☺ یا نادرست ☹ علامت بزن

الف – سنگ ها در همه جا دیده می شوند ☺ ☹

ب- سنگ های کوه صاف هستند ☺ ☹

ج – آب باران ، سرماوگرما سنگ ها را تغییر شکل می دهند ☺ ☹

۶- فیروزه یک ..... است و رنگ آن ..... است .

الف – خاک – آبی ☐

ب – سنگ – سبز آبی ☐

۷- چه سنگی در نمای ساختمان استفاده می شود ؟

ماسه	مرمر	سنگ جواهر
☐	☐	☐

۸- یک استفاده ی سنگ را نقاشی کن

خسته نباشید